17)

3) 14

4) 15

23) El concurso de una feria consiste en predecir el siguiente número que aparecerá en la ruleta. Si x es el próximo número en aparecer, ¿cuál es su

2) 21,00

3) 24,50

aumentar la cantidad de mantenimientos, ¿cuántos se podrían real izar en 8 horas?

1) 4

2) 8

3) 18

4) 20

41)

La dicotomía entre corazón y mente se ha extendido por varios años generando un gran debate. Óscar cree que lo mejor es que haya un equilibrio entre mente y emociones. Jonás opina que lo más importante es el corazón, por eso siempre se basa en las emociones a la hora de tomar decisiones. Carlos dice que para él es más importante la mente y pensar bien las cosas. Sara, ¿qué opinas?

1) Jonás

2) Carlos

3) Óscar

4) Sara

Tf 1 0 0 1 220.134 0 Tm 0.2 g 0.2 G [( )] TJ ET q 0.00009 0 0 1 294.612 792 cm BT /F1 6.48 Tf 1 0 0 1 71.424 6235.85Tm 0.2 g 0.2 G [( )] TJ y h

50) Selecciona la opción que completa correctamente la oración:

61) Un ser humano que utiliza el pensamiento crítico

Ya las gentes murmuran que soy tu enemiga porque dicen que en verso doy al mundo mi yo. Mienten, Julia de Burgos. Mienten, Julia de Burgos. La que se alza en mis versos no es tu voz: es mi voz porque tú eres ropaje y la esencia soy yo; y el

2) gusta - prefiere

3) gustan - prefieren

4) gusta - prefieren

70) Identifique el significado contextual de la palabra en

4)

4) Uso de menos productos orgánicos

85) La tabla muestra tres términos ecológicos usados para describir los niveles de organización en la Tierra.

A Población

4) Sus fuerzas de atracción son muy débiles y se desordenan

90) Identifique el nombre del compuesto que se produce como resu

2)

1)

2) Mayor representación de las mujeres en la economía informal y de baja productividad

3) Protección especial contra cualquier tipo de explotación laboral o económica

4)

Janeiro (1942), en el cual aproximadamente 200 000 kilómetros de territorio amazónico pasaron a formar parte del territorio peruano. Muchos analistas mencionan el interés _____ como el principal factor del conflicto. A partir del desconocimiento del tratado, se lkievaron a cabo os conflictos de Paquisha (1981) y del Alto Cenepa 1995). En 1998, firma el Acta de Brasilia, con el objetivo de poner fin a estas diferencias, lo cual tiene repercusión principalment e en el ámbito comercial, _____ el intercambio de productos, así como el flujo turístico en la zona.

1. petrolero - incrementando
2. agrícola -

5. Otorgar estabilidad y seguridad a los ciudadanos de un Estado

1) 1, 2, 4

2) 1, 3, 4

3) 2, 3, 5

4) 3, 4, 5

118) Lea el texto y responda.

1)

3c

1a, 2c,

2)

3b

1b, 2a,

3)

3c

1c, 2b,

4)

2)

3)

4)

126) Identifique la figura que completa la matriz.

1)

2)

3)

4)

127) Identifique la figura que sigue la secuencia.

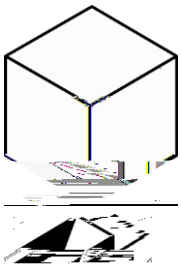



1)

2)

3)

4)

130)

3)

4)

137) Identifique la imagen que se obtiene al girar la figura 225°.

1)

2)

3)

4)

138) Identifique la figura que reemplaza a la incógnita; considere que los recuadros grises ocultan informarión.

1)

2)

3)

4)

139)

1)

2)

3)

4)

140) Con base en la representación bidimensional de la figura, identifique el objeto que corresponde.

1)

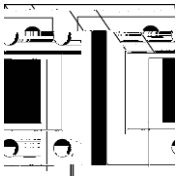

1)

2)

3)

4)

147) Todas las figuras guardan relación entre sí, **excepto**:

152) Identifique la imagen que completa la serie.

3)

4)

158) Identifique la figura que reemplaza a la incógnita.

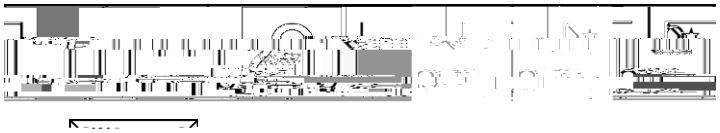

1)

2)

159) ¿Qué figura reemplaza a la incógnita?